SM:D

SCUOLA MEDIA DIGITALE

La cronologia

Nello studio della storia di quest'anno scolastico, le unità di misura del tempo che utilizzeremo maggiormente sono i millenni, i secoli e i decenni:

- ✓ **un millennio è un periodo di tempo lungo mille anni;**
- ✓ **un secolo è un periodo di tempo lungo cento anni;**
- ✓ **un decennio è un periodo di tempo lungo dieci anni.**

Proviamo quindi a rappresentarli su una linea del tempo.

SM:D
SCUOLA MEDIA DIGITALE

La cronologia

L’obiettivo che ci poniamo ora è il seguente: costruire correttamente una linea del tempo partendo dal 5.000 a.C. per arrivare al 3.000 d.C. Il primo passo che dobbiamo fare è quello di (1) disegnare la nostra linea orientata, con una freccia all’estremità destra che indica lo scorrere del tempo:

La cronologia

Successivamente (2) fissiamo il punto di riferimento della nascita di Cristo al centro della linea, leggermente spostato verso destra, con l'indicazione dell'anno.

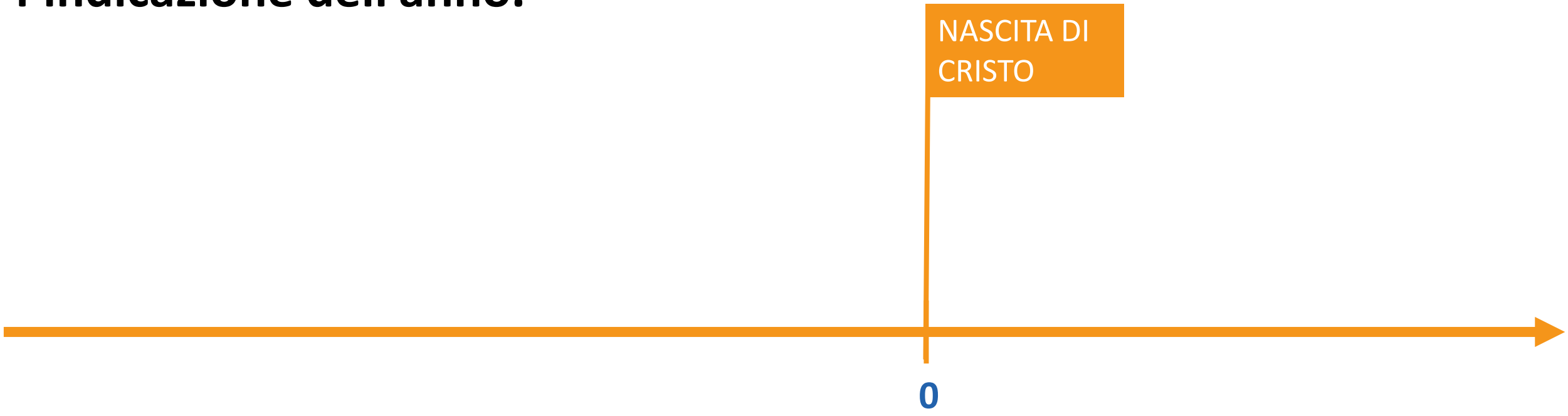

La cronologia

Alle estremità della linea del tempo (3) indichiamo in modo chiaro "avanti Cristo" e "dopo Cristo", utilizzando le abbreviazioni corrette.

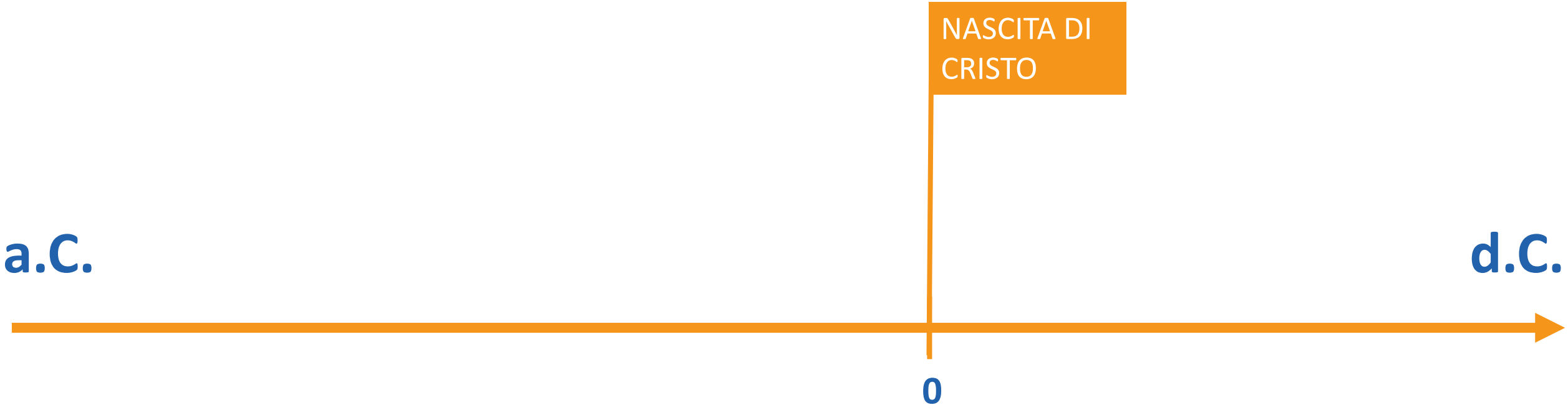

SM:D
SCUOLA MEDIA DIGITALE

La cronologia

In corrispondenza dell'inizio e della fine di ciascun millennio, (5) riportiamo la data corretta.

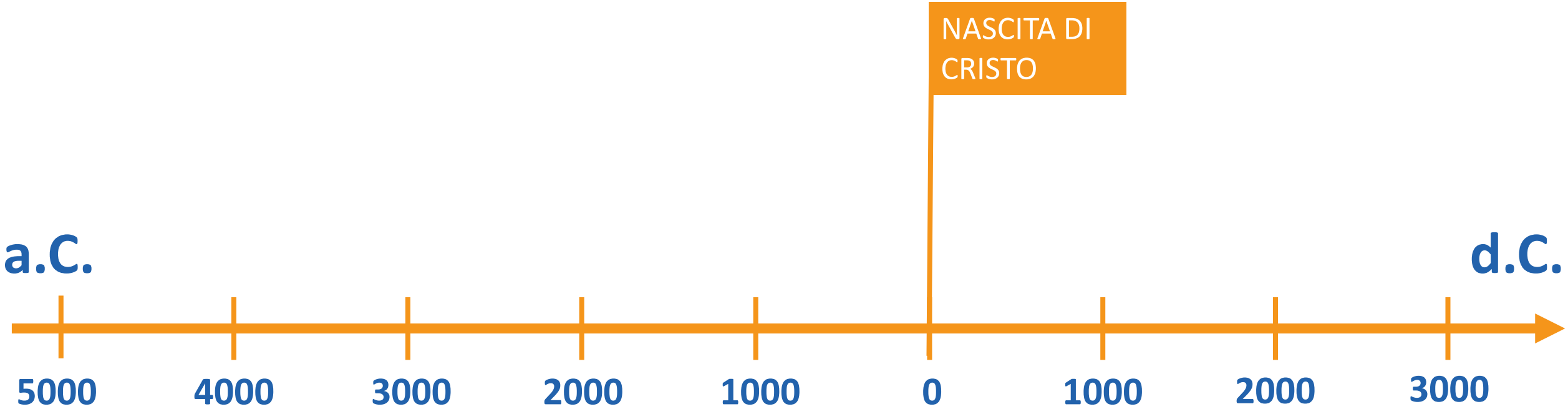

SM:D
SCUOLA MEDIA DIGITALE

La cronologia

A questo punto la nostra linea del tempo è quasi completa: possiamo (6) aggiungere l'anno in corso:

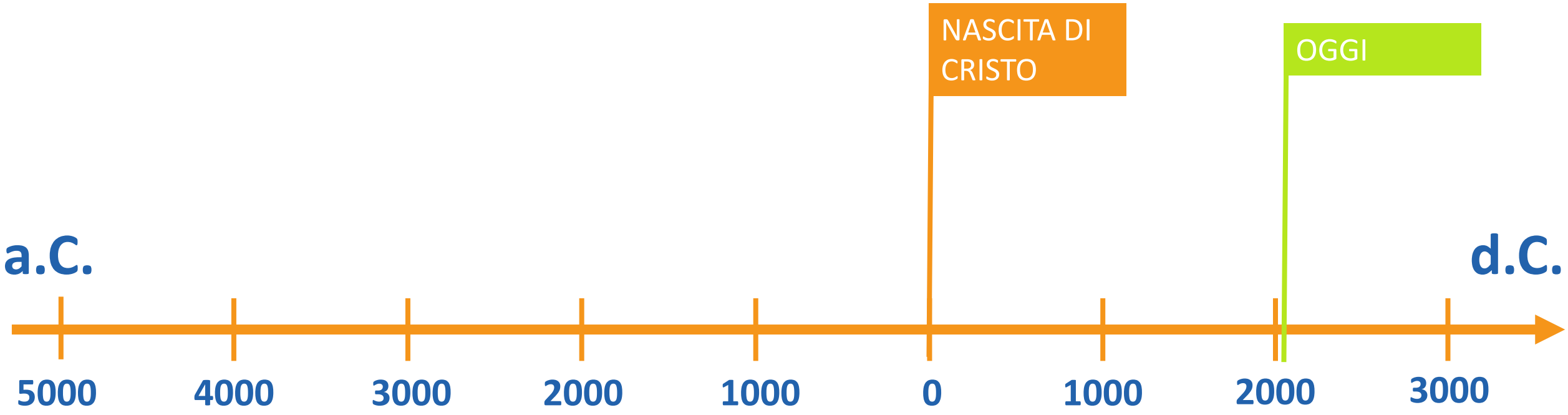

SM:D
SCUOLA MEDIA DIGITALE

La cronologia

Passiamo quindi a (7) numerare ciascun millennio: come si può vedere, il I millennio d.C. inizia il 1 d.C. e si conclude alla fine del 999 d.C.

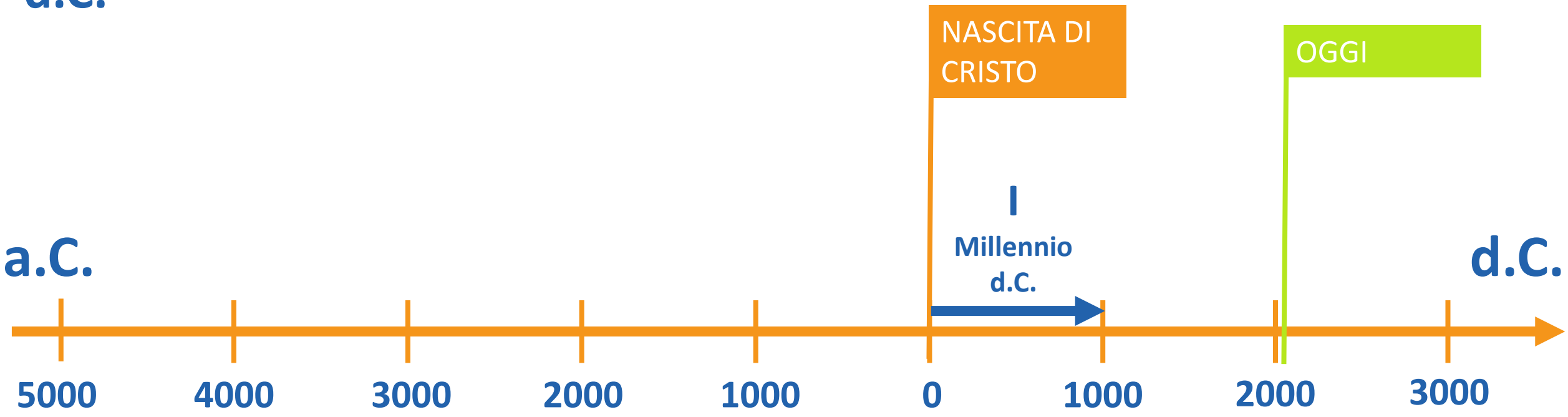

SM:D
SCUOLA MEDIA DIGITALE

La cronologia

Analogamente, il II millennio d.C. inizia il 1000 d.C. e si conclude alla fine del 1999 d.C.

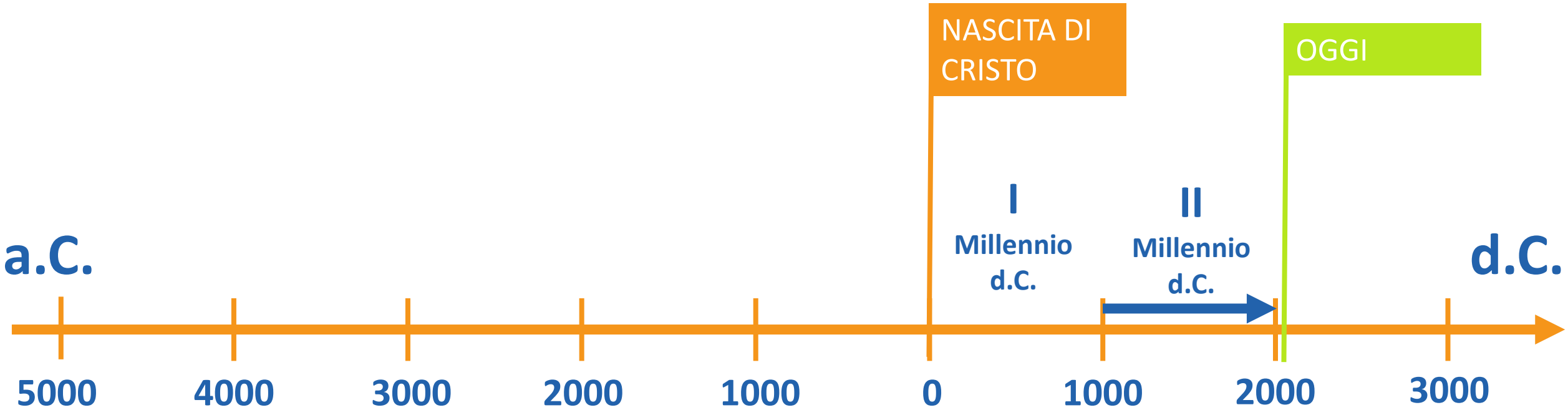

SM:D
SCUOLA MEDIA DIGITALE

La cronologia

Di conseguenza, noi stiamo vivendo l'inizio del III millennio d.C., iniziato il 1 gennaio del 2000 d.C. e che si concluderà alla fine del 2999 d.C.

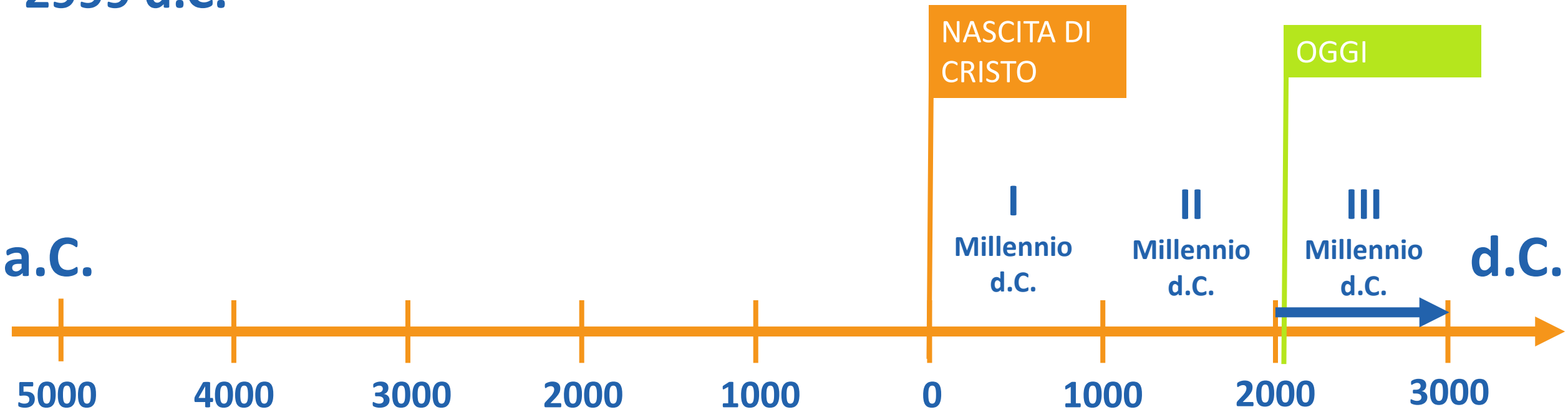

SM:D
SCUOLA MEDIA DIGITALE

La cronologia

Per quanto riguarda i millenni prima della nascita di Cristo, il I millennio a.C. inizia il 1 gennaio del 1000 a.C e si conclude alla fine dell'anno 1 a.C.

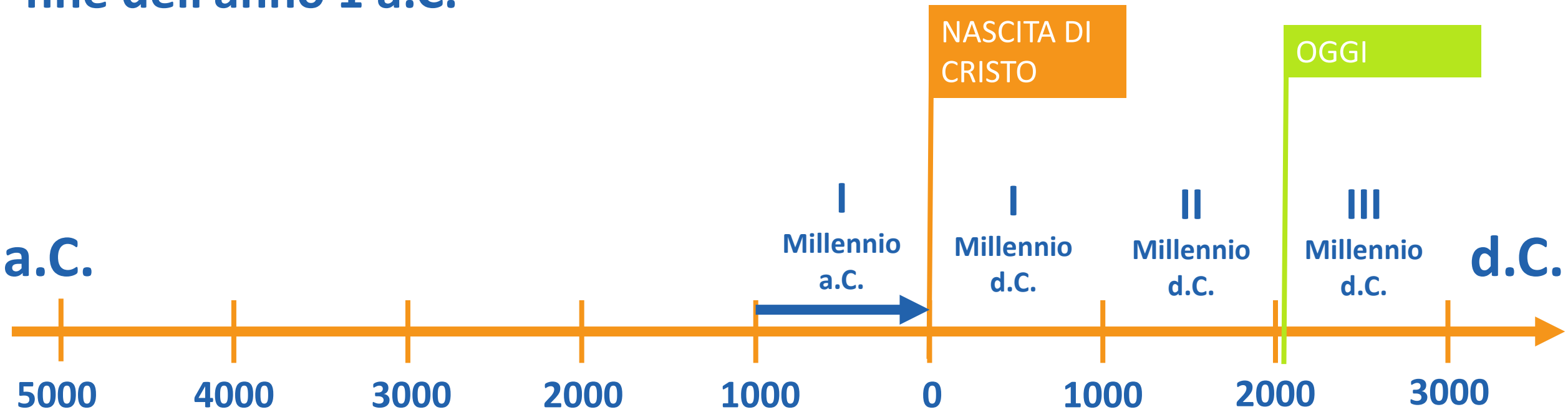

SM:D
SCUOLA MEDIA DIGITALE

La cronologia

Andando indietro nel tempo, il II millennio a.C. inizia nel 2000 a.C. e si conclude nel 1001 a.C.

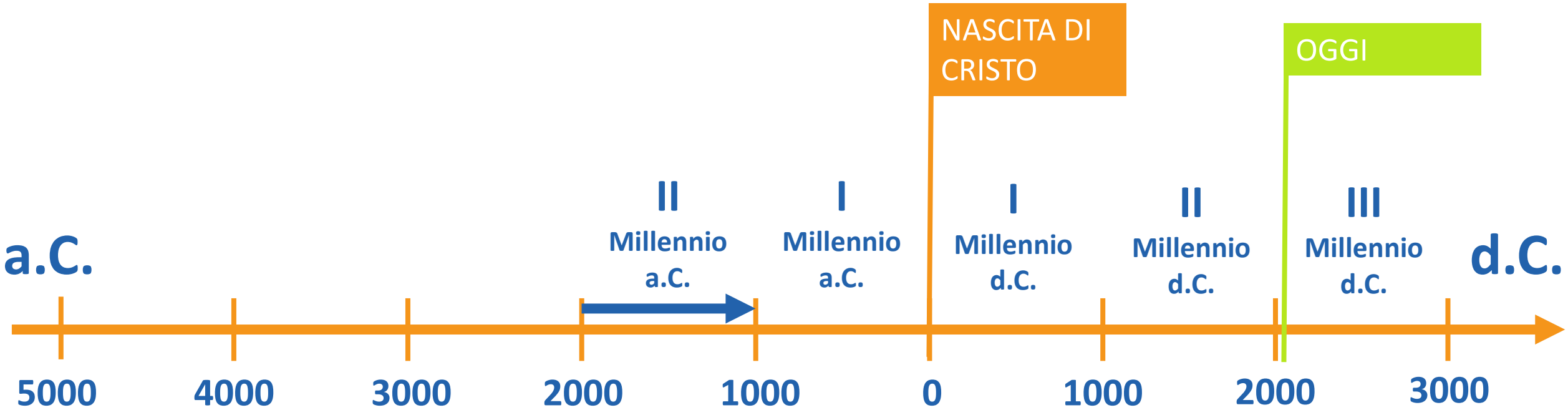

SM:D
SCUOLA MEDIA DIGITALE

La cronologia

Procedendo a ritroso, abbiamo numerato tutti i millenni, dal quinto a.C. al terzo d.C.

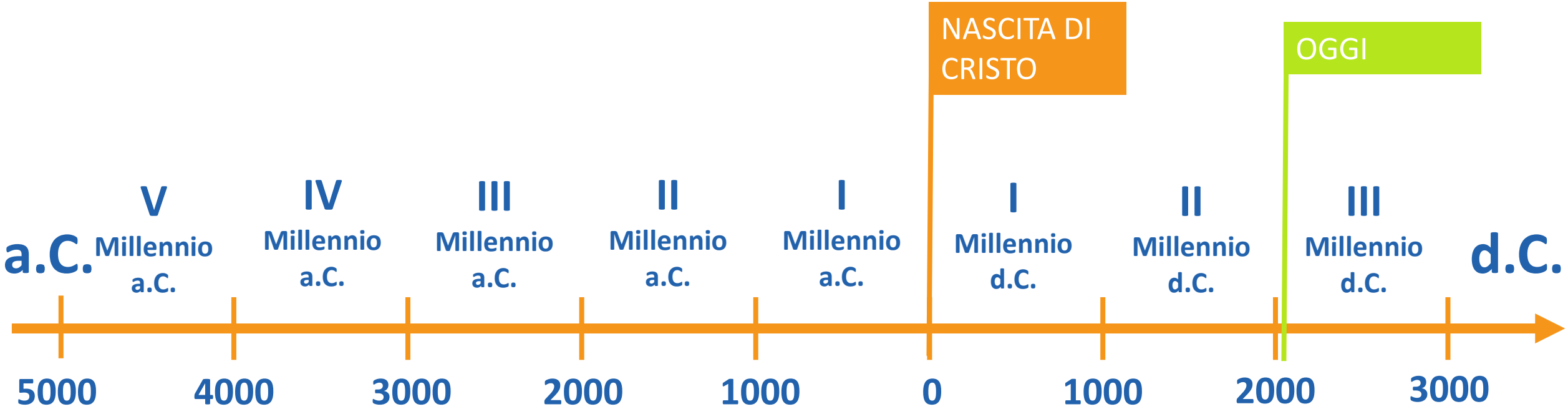

SM:D
SCUOLA MEDIA DIGITALE

La cronologia

Costruiamo, in modo simile, una linea del tempo che riguarda i secoli, ed in particolare dal IV sec. a.C. all'XI sec. d.C.



SM:D
SCUOLA MEDIA DIGITALE

La cronologia

I secoli dopo l'anno 1000 d.C., dal XIII al XX, possono essere anche denominati con i numerali cardinali che indicano le centinaia:

Secolo:	Anno di inizio:	Anno di fine:
XIII sec. o **Duecento**	1200 d.C.	1299 d.C.
XIV sec. o **Trecento**	1300 d.C.	1399 d.C.
XV sec. o **Quattrocento**	1400 d.C.	1499 d.C.
XVI sec. o **Cinquecento**	1500 d.C.	1599 d.C.
XVII sec. o **Seicento**	1600 d.C.	1699 d.C.
XVIII sec. o **Settecento**	1700 d.C.	1799 d.C.
XIX sec. o **Ottocento**	1800 d.C.	1899 d.C.
XX sec. o **Novecento**	1900 d.C.	1999 d.C.

Nella prossima slide troverai una linea del tempo completa dal III sec. a.C. al XXI sec. d.C.

La cronologia

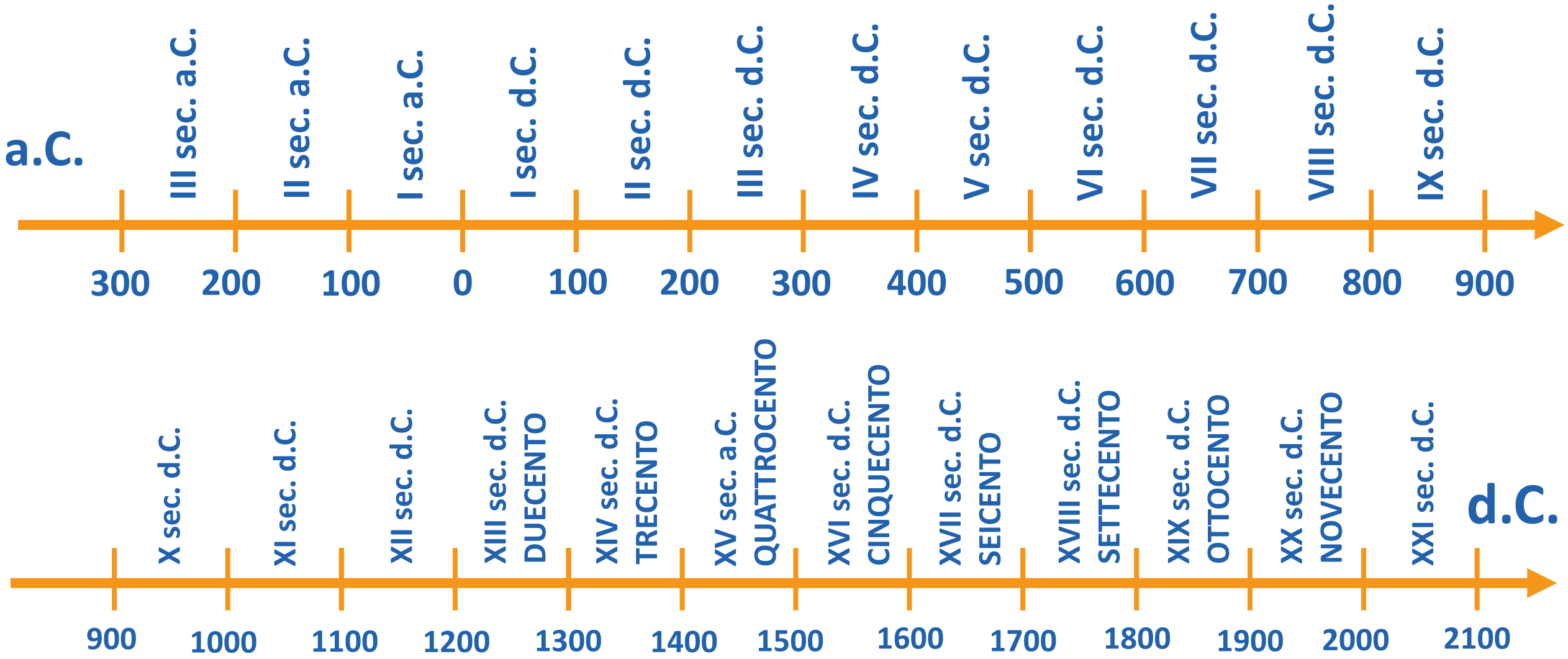

SM:D
SCUOLA MEDIA DIGITALE

La cronologia

Proposta operativa: sul tuo quaderno, scrivi accanto a ciascuna data che segue il secolo a cui appartiene, scrivendolo sia in numeri romani che per esteso (quanto è possibile, in entrambe le forme).
In caso di incertezza utilizza SEMPRE la linea del tempo che hai appena visualizzato. Ecco tre esempi su come deve essere svolto l'esercizio:

1221 d.C.:	XIII sec. d.C	Tredicesimo sec. d.C.	Trecento
340 a.C.:	IV sec. a.C	Quarto sec. a.C.	
632 d.C.:	VII sec. d.C.	Settimo sec. d.C.	

1066 d.C.	1789 d.C.	732 a.C.	1492 d.C.
1945 d.C.	145 a.C.	476 d.C.	250 a.C.
1515 d.C.	530 d.C.	410 a.C.	31 a.C.

SM:D
SCUOLA MEDIA DIGITALE

SM:D

SCUOLA MEDIA DIGITALE